Oś liczbowa

1. Uzupełnij liczby na osi.

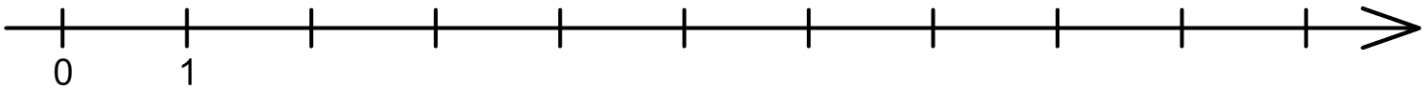

2. Przedstaw na osi liczbowej działanie:
4+3=

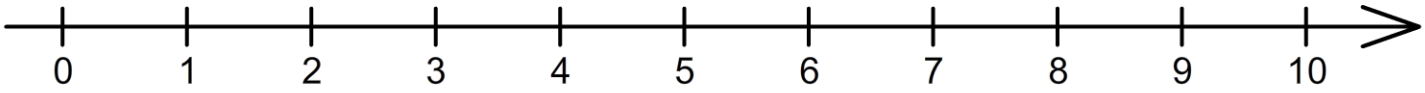

3. Oblicz przy pomocy osi liczbowej 9-5=

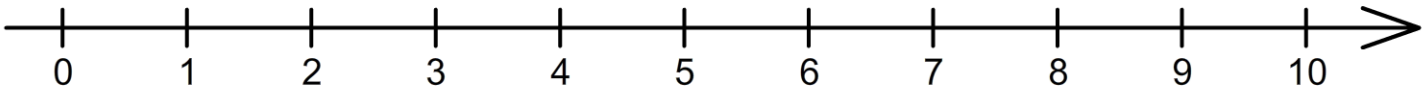

Arkusz stworzony za pomocą generatora arkuszy w serwisie SuperKid.pl. Za treść arkusza serwis SuperKid.pl nie odpowiada.